2012-2013 石室中学 学校 九 年级上半期考试答案详解

解题老师 韩彦

一、选择题

题号	1	2	3	4	5	6	7	8	9	10
答案	C	B	C	D	B	B	A	D	C	C

二、填空题

11. 0, 1, 2　　12. 1　　13. $\sqrt{3}$　　14. 3.5

三、解答题

15. (1) 解：原式 $= -1 + 2\times\frac{\sqrt{3}}{2} + 2 - 1$

$= \sqrt{3}$

(2) 解：$x^2 - 6x + 3^2 = -4 + 3^2$

$(x-3)^2 = 5$

$x - 3 = \pm\sqrt{5}$

$x_1 = 3+\sqrt{5}$，$x_2 = 3-\sqrt{5}$

16. 解：原式 $= \frac{3x(x-1) - x(x+1)}{(x+1)(x-1)} \cdot \frac{x-1}{x(x-2)}$

$= \frac{2x^2 - 4x}{(x+1)(x-1)} \cdot \frac{x-1}{x(x-2)}$

$= \frac{2x(x-2)}{x+1} \cdot \frac{1}{x(x-2)}$

$= \frac{2}{x+1}$

当 $x = \tan 60° = \sqrt{3}$ 时，

原式 $= \frac{2}{\sqrt{3}+1} = \sqrt{3} - 1$

17. 解：过点A作AE⊥CD于点E，过点B作BF⊥CD于点F.

∵ AB // CD.

∴ ∠AEF = ∠EFB = ∠ABF = 90°

∴ 四边形ABFE为矩形

∴ AE = BF，AB = EF

在Rt△CEA中，AE = 100，∠ECA = 60°

∴ $CE = AE \cdot \cot 60° = 100 \cdot \frac{\sqrt{3}}{3}$

在Rt△DFB中，BF = 100，∠FDB = 45°.

∴ DF = BF = 100

∴ ~~EF = ED + DF = 500 + 100 = 600~~

∴ $AB = EF = CD + DF - CE = 500 + 100 - \frac{100}{3}\sqrt{3} = 600 - \frac{100}{3} \times 1.73 \approx 542.3$ m

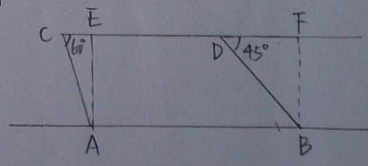

答：两岛间的距离为542.3米

2012-2013 石室中学 学校 九 年级上半期考试答案详解

解题老师 韩正

18. 解 (1) 列表如下

乙＼甲	-1	3	-4
-2	(-1,-2)	(3,-2)	(-4,-2)
1	(-1,1)	(3,1)	(-4,1)
5	(-1,5)	(3,5)	(-4,5)

(2) 反比例函数在第一、三象限时A的坐标为 (-1,-2) (-4,-2) (3,1) (3,5)

∴ $P=\frac{4}{9}$

19. 解 (1) ∵ $y=kx+2$ 与x轴，y轴分别交于A，B.

∴ B(0,2)

又∵ $\tan\angle CBD=\frac{1}{2}$，C(1,a)

∴ $\frac{CD}{BD}=\frac{1}{2}$.

∴ BD=2.

∴ D(0,4)，CD⊥y轴

∴ a=4

∴ C(1,4) 代入 $y=kx+2$ 得.

$4=k+2$.

$k=2$

将C代入 $y=\frac{m}{x}$ 得

$4=m$

∴ k=2，m=4

(2) ∵ $y=2x+2$

∴ A(-1,0)

∴ AO=1

$\begin{cases} y=2x+2 \\ y=\frac{4}{x} \end{cases} \Rightarrow \begin{cases} x_1=1 \\ y_1=4 \end{cases} \begin{cases} x_2=-2 \\ y_2=-2 \end{cases}$

∴ E(-2,-2)，C(1,4)

∴ $S_{\triangle OCE}=S_{\triangle AOE}+S_{\triangle AOC}$

$=\frac{1}{2}\times1\times2+\frac{1}{2}\times1\times4$

$=3$

2012-2013 初中 学校 九 年级上半期考试答案详解

解题老师 韩辰

(3) ∵ 反比例函数的值大于一次函数的值.
由图可知. $0<x<1$ 或 $x<-2$

20. (1) AE=ED. AE⊥ED

(2) ①由题意知: ∠B=∠C=90°, AB=BE=EC=DC
∵ △EGF与△EAB的位似比为 1:2
∴ ∠GFE=∠B=90°, $\frac{EF}{BE}=\frac{1}{2}$, $\frac{GF}{AB}=\frac{1}{2}$
∵ H是EC的中点
∴ EH=HC=$\frac{1}{2}$EC. EH+EF=$\frac{1}{2}$BE+$\frac{1}{2}$EC=EC=FH
∴ GF=HC. FH=DC
∴ 在△GFH和△HCD中
$\begin{cases} GF=HC \\ \angle GFE=\angle DCH \\ FH=CD \end{cases}$
∴ △GFH≌△HCD(SAS)
∴ GH=HD, ∠GHF=∠HDC
∵ ∠HDC+∠DHC=90°
∴ ∠GHF+∠DHC=90°
∴ ∠GHD=90°
∴ GH⊥HD

② 当GH⊥HD时.
∠DHG=∠DHC+∠FHG=90°
∠FHG+∠FGH=90°
∴ ∠FGH=∠DHC
在△DHC和△HGF中
$\begin{cases} \angle DCH=\angle HFG \\ \angle DHC=\angle FGH \\ DH=HG \end{cases}$
∴ △DHC≌△HGF(AAS)
∴ CH=FG
∵ △ABE∽△GFE
∴ ∠FEG=∠FGE=45°
∴ EF=FG=CH
∵ BC=2
∴ BE=EC=1
∵ $\frac{EF}{BE}=\frac{k}{1}$ ∴ EF=k. ∴ CH=k

2012-2013 福中学 学校 九 年级上半期考试答案详解

解题老师 韩飞

B卷

一. 填空题

21. -2　　22. $\frac{3}{4}$　　23. b（此题若反比例函数 k 为0可意义. $S_{\triangle OBC}=4S_{\triangle AOE}$.
过点E作 $EN\perp OB$. 过点A作 $AM\perp OB$.
$\therefore S_{\triangle OBC}=4S_{AMNE}$
但需注意 EN 为 $\triangle AMB$ 的中位线，可设 $A(x,y)$ $E(x,\frac{y}{2})$）

24. ① ② ③

25. ① ③ ④

易证 $\triangle DFB\cong\triangle ACB$
$\therefore BF=BC=AF$，$\angle ACB=\angle FAE$
$\therefore \triangle ABC\cong\triangle EFA(SAS)$ → ①正确
$\therefore \angle AOE=180°-30°-60°=90°$
$\therefore EF\perp AC$ → ③正确
$\because AD=EF$，$AE=DF$
$\therefore$ 四边形ADFE为□
$\therefore AG=\frac{1}{2}AF$，
$\therefore AG=\frac{1}{4}AB$ → ④正确
$\because$ □ADFE
$\therefore AD=EF>AE$ → ②错误
$\therefore AD>AE$
$\because S_{\triangle AGO}=S_{\triangle GOF}$
$\therefore \frac{S_{\triangle AGO}}{S_{\triangle EOG}}=\frac{S_{\triangle GOF}}{S_{\triangle EOG}}=\frac{OF}{OE}$
设 $OF=a$，则 $AF=BF=2a$.
$\therefore AB=4a$，$BC=2a$
$\therefore AC=2\sqrt{3}a$，$AD=\sqrt{3}a$.
$\therefore OE=3a$.
$\therefore \frac{OF}{OE}=\frac{a}{3a}=\frac{1}{3}$ → ⑤错误.

二. 26. 解：(1) $y=30-2x$　$(6\le x<15)$

(2) 设苗圃园的面积为S
则 $S=xy=-2x^2+30x$
$=-2(x-\frac{15}{2})^2+\frac{225}{2}$
当 $x=\frac{15}{2}$ 时，$S_{max}=\frac{225}{2}$
$\because 6\le x<15$　$\therefore x$ 可取 $\frac{15}{2}$
答：垂直于墙的一边长为7.5 m时，苗圃面积最大且为112.5 m^2.

2012-2013 石景中答 学校 九 年级上半期考试答案详解

解题老师 韩笑

(3) ∵ $y \geq 88$

∴ $-2x^2+30x \geq 88$

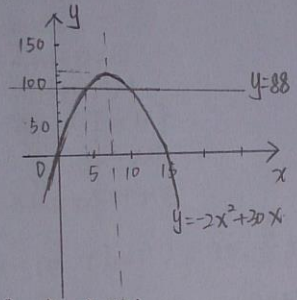

∴ $4 \leq x \leq 11$

又∵ $6 \leq x < 15$

∴ x的取值范围 $6 \leq x \leq 11$

三. 27. 解：(1) ∵ 四边形ABCD为菱形

∴ AB∥CD.

∴ ∠1 = ∠ACD

又∵ ∠1 = ∠2

∴ ∠2 = ∠ACD

∵ ME⊥CD.

∴ CE = ED

∵ CE = 1

∴ CD = 2CE = 2

∴ CD = CB = 2

(2) 四边形ABCD为菱形

∴ BC = DC，∠BCA = ∠DCA

∵ F为BC的中点，CE = DE

∴ CF = CE

在△FMC和△EMC中

$$\begin{cases} CF = CE \\ \angle BCA = \angle DCA \\ CM = CM \end{cases}$$

∴ △FMC≌△EMC (SAS)

∴ ME = MF

延长AB与DF交于点G

在△BGF和△CDF中

$$\begin{cases} \angle GBC = \angle DCF \\ BF = CF \\ \angle BFG = \angle CFD \end{cases}$$

∴ △BGF≌△CDF (ASA)

∴ GF = DF

2012-2013 石室中学 学校 九 年级上半期考试答案详解

解题老师 韩 [illegible]

∵ AG∥CD
∴ ∠AGD=∠2
∵ ∠1=∠2
∴ ∠AGD=∠1
∴ MG=AM
∵ MG=GF+MF
=DF+ME
∴ AM=DF+ME

四.28.(1) $(b,0)$，$(0,\frac{b}{4})$

(2) 过点P作PD⊥x轴，PE⊥y轴，连结OP
∴ ∠EPD=90°
∵ ∠EPC+∠CPD=90°
∠CPD+∠DPB=90°
∴ ∠DPB=∠EPC
在△PEC和△PDB中
$\begin{cases}\angle PEC=\angle PDB\\ \angle DPB=\angle EPC\\ PC=PB\end{cases}$
∴ △PEC≌△PDB(AAS)
∴ PE=PD
∴四边形PEOD为正方形.
设P(x,y)
则 x=y
∵ $S_{\triangle COB}=2b$
∴ $S_{\triangle COB}=S_{\triangle COP}+S_{\triangle POB}$
$2b=\frac{1}{2}\cdot\frac{b}{4}\cdot x+\frac{1}{2}\cdot b\cdot y$
$2b=\frac{b}{8}x+\frac{b}{2}y$
∴ $2=\frac{x}{8}+\frac{y}{2}$
∴ $\begin{cases}\frac{x}{8}+\frac{y}{2}=2\\ x=y\end{cases}\Rightarrow\begin{cases}x=\frac{16}{5}\\ y=\frac{16}{5}\end{cases}$
∵ OE=BD
∴ $\frac{16}{5}-\frac{b}{4}=b-\frac{16}{5}$
∴ $b=\frac{128}{25}>2$ 符合题意.
∴存在点$P(\frac{16}{5},\frac{16}{5})$

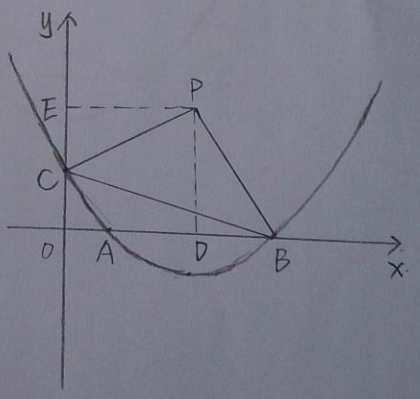

2012-2013 石景中学 学校 九 年级上半期考试答案详解

解题老师 韩飞

(3) 假设存在点P，使 $\triangle PCO$、$\triangle POA$、$\triangle PAB$ 中至多两个三角形相似

∵ O,A,B 三点共线

∴ $\angle PAB=\angle OPA+\angle POA$

∴ $\angle PAB>\angle OPA$，$\angle PAB>\angle POA$

若 $\triangle POA\backsim\triangle PAB$，则只能 $\angle PAO=\angle PAB=90^\circ$

∵ $A(1,0)$，$B(b,0)$，$b>2$.

∴ $OA<AB$

∴ $\angle OPA<\angle APB$

∴ $\angle POA=\angle APB$

∵ $PA\parallel y$ 轴

∴ $\angle OPA=\angle COP$.

若 $\triangle COP\backsim\triangle OPA$

则 $\angle PCO=90^\circ$ 或 $\angle OPC=90^\circ$

1° 若 $\angle PCO=90^\circ$

∴ $OCPA$ 为矩形

∴ $AP=OC=\frac{b}{4}$

又∵ $\triangle AOP\backsim\triangle APB$

∴ $AP^2=AO\cdot AB$

$(\frac{b}{4})^2=1(b-1)$

$b=8\pm4\sqrt{3}$

∵ $b>2$

∴ $b=8+4\sqrt{3}$.

∴ $P(1,2+\sqrt{3})$

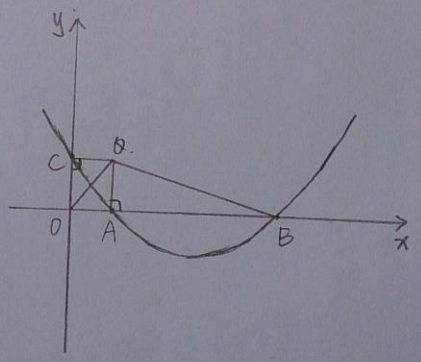

2°. 若 $\angle OPC=90^\circ$

∵ $\triangle OPC\backsim\triangle OAP$

∴ $\frac{OP}{CO}=\frac{AP}{OP}$

∴ $OP^2=OC\cdot AP$

又∵ $\triangle POA\backsim\triangle BPA$

∴ $OP^2=OA\cdot OB$

∴ $OC\cdot AP=OA\cdot OB$

$\frac{b}{4}\cdot AP=1\cdot b$

$AP=4$

又∵ $AP^2=OA\cdot AB$

$16=b-1$

$b=17>2$ 符合题意

∴ $P(1,4)$

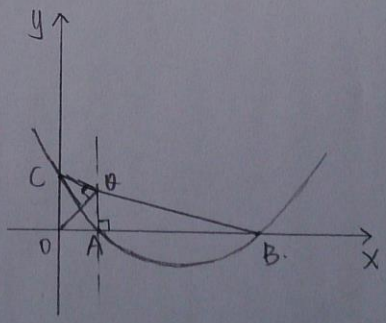

综上，存在点 $P(1,2+\sqrt{3})$ 或 $P(1,4)$ 使得 $\triangle PCO$，$\triangle POA$，$\triangle PAB$ 中至多两个三角形相似